Corrigé du travail de jeudi 26 et vendredi 27 mars

Welches Datum haben wir heute ?

Heute ist **Donnerstag** den 26 . März 2020.

Wie ist das Wetter heute ?

Heute die Sonne scheint, es ist windig und **zehr (très)** kalt.

Wie geht es dir ?

Mir geht es schlecht.

Warum ?

Weil ich bin **ängstlich**.

Numération 7:

2 **Utilise le calcul pour trouver entre quels nombres entiers sont comprises ces fractions.**

8 < $\frac{25}{3}$ < 9	4 < $\frac{9}{2}$ < 5	4 < $\frac{14}{3}$ < 5	3 < $\frac{16}{5}$ < 2	10 < $\frac{32}{3}$ < 11
5 < $\frac{46}{9}$ < 6	8 < $\frac{53}{6}$ < 9	0 < $\frac{6}{9}$ < 1	3 < $\frac{25}{7}$ < 4	17 < $\frac{52}{3}$ < 18

9 **Encadre entre deux entiers consécutifs.**

Ex. : $1 < \frac{3}{2} < 2$

$\frac{1}{2}$ $\frac{5}{3}$ $\frac{7}{2}$ $\frac{1}{4}$ $\frac{13}{5}$ $\frac{15}{2}$ $\frac{14}{5}$ $\frac{21}{6}$

n° 9

$0 < \frac{1}{2} < 1$ car $0 \times 2 = 0 < 2 < 2 \times 1 = 2$

$2 < \frac{13}{5} < 3$ $2 \times 5 = 10 < 5 < 3 \times 5 = 15$

$1 < \frac{5}{3} < 2$ car $1 \times 3 = 3 < 5 < 2 \times 3 = 6$

$7 < \frac{15}{2} < 8$ $2 \times 7 = 14 < 15 < 8 \times 2 = 16$

$3 < \frac{7}{2} < 4$ car $3 \times 2 = 6 < 7 < 4 \times 2 = 8$

$2 < \frac{14}{5} < 3$ $2 \times 5 = 10 < 14 < 3 \times 5 = 15$

$0 < \frac{1}{4} < 1$ car $0 \times 4 = 0 < 1 < 1 \times 4 = 4$

$3 < \frac{21}{6} < 4$ $3 \times 6 = 18 < 21 < 4 \times 6 = 24$

1X20 = 20
2X20 = 40
3X20 = 60
4X20 = 80
5X20 = 100
6X20 = 120
7X20 = 140
8X20 = 160
9X20 = 180
10X20 = 200

```
 18500 | 20
-180   | 925,000...
   50
  -40
   100
  -100
    000 | 0
       -0
        00
         -0
          0
```

1X15 = 15
2X15 = 30
3X15 = 45
4X15 = 60
5X15 = 75
6X15 = 90
7X15 = 105
8X15 = 120
9X15 = 135
10X15 = 150

```
 14567 | 15
-135   | 971,133...
 0106
-105
  0017
    -15
     020,0
    -15
      050,0
     -45
       050,0
      -45
        05
```

1X33 = 33
2X33 = 66
3X33 = 99
4X33 = 132
5X33 = 165
6X33 = 198
7X33 = 231
8X33 = 264
9X33 = 297
10X33 = 330

```
 561056 | 33
-33     | 17001,696
 231
-231
 0000
   -00
    005
     -0
      56
     -33
      2310
     -198
      0312,0
       -297
        0230,0
         -198
          032
```

Calcul mental jour n°3:

a) 10,6	f) 9,8
b) 27,0 = 27	g) 0,1
c) 771,5	h) 9,0 = 9
d) 54,3	i) 30,7
e) 85,6	j) 501,0 = 501

Conjugaison 8 :

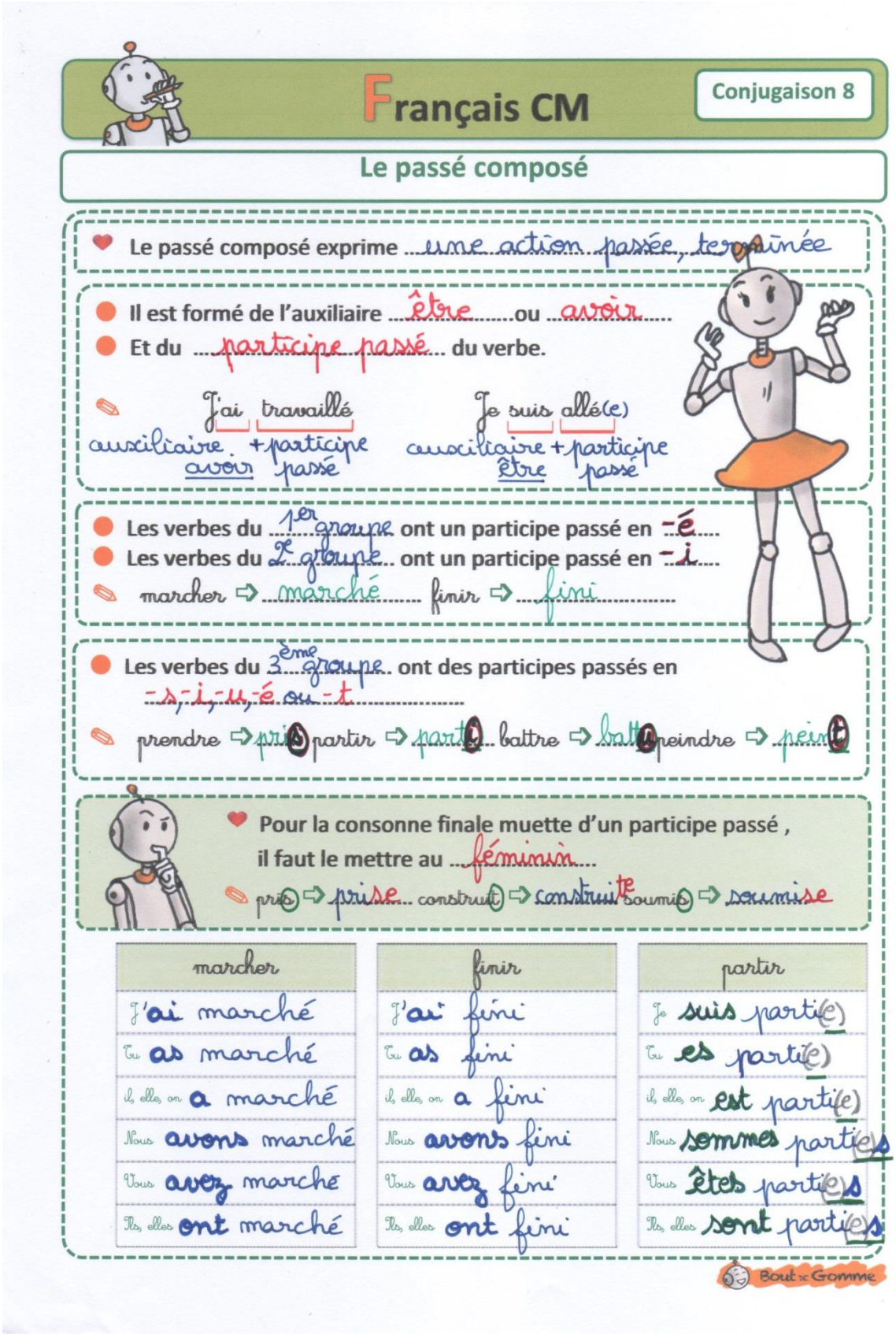

Français CM

Conjugaison 8

Le passé composé

- Le passé composé exprime une action passée, terminée

- Il est formé de l'auxiliaire être ou avoir
- Et du participe passé du verbe.

J'ai travaillé — auxiliaire avoir + participe passé

Je suis allé(e) — auxiliaire être + participe passé

- Les verbes du 1er groupe ont un participe passé en -é
- Les verbes du 2e groupe ont un participe passé en -i

marcher ⇨ marché finir ⇨ fini

- Les verbes du 3ème groupe ont des participes passés en -s, -i, -u, -é ou -t

prendre ⇨ pris partir ⇨ parti battre ⇨ battu peindre ⇨ peint

- Pour la consonne finale muette d'un participe passé, il faut le mettre au féminin

pris ⇨ prise construit ⇨ construite soumis ⇨ soumise

marcher	finir	partir
J'ai marché	J'ai fini	Je suis parti(e)
Tu as marché	Tu as fini	Tu es parti(e)
il, elle, on a marché	il, elle, on a fini	il, elle, on est parti(e)
Nous avons marché	Nous avons fini	Nous sommes parti(e)s
Vous avez marché	Vous avez fini	Vous êtes parti(e)s
Ils, elles ont marché	Ils, elles ont fini	Ils, elles sont parti(e)s

Bout de Gomme

Welches Datum haben wir heute ?

Heute ist **Freitag** den 27 . März 2020.

Wie ist das Wetter heute ?

Heute die Sonne scheint, und es ist kalt.

Wie geht es dir ?

Mir geht es so lala.

Warum ?

Weil ich bin **überrascht**.

Calcul :

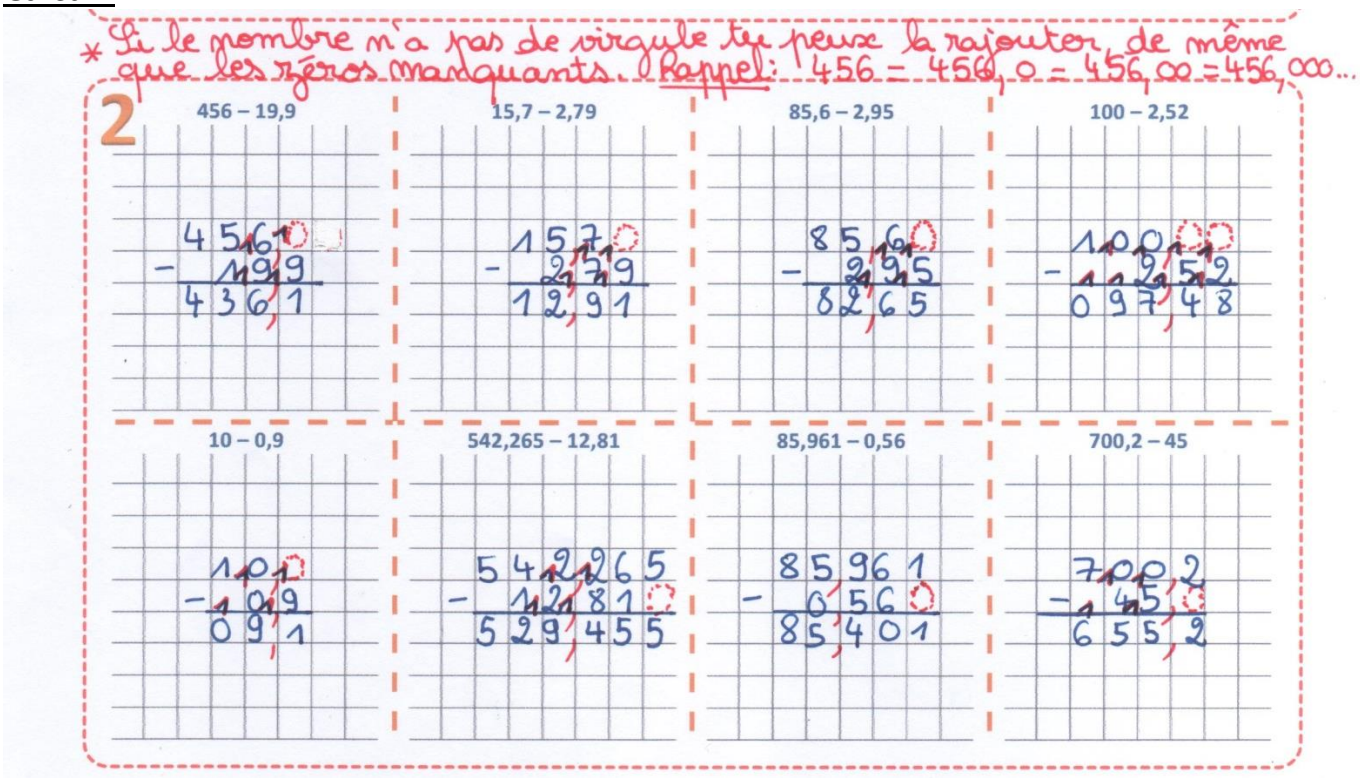

N°6 p.143 : (quelques exemples)

Prendre : reprendre – surprendre – comprendre…
Venir : revenir – parvenir – survenir…
Porter : reporter – importer – déporter – supporter – apporter – emporter…
Garder : regarder…
Voir : revoir – prévoir – entrevoir…
Faire : refaire- défaire – parfaire – surfaire…
Fermer : refermer – enfermer…
Former : reformer – déformer…
Servir : resservir – desservir…
Paraître : reparaître – disparaître – apparaître…
Plier : replier – déplier…

	Km²		Hm²		Dam²		M²		Dm²		Cm²		Mm²	
2	5	0	0	0	0	0	0	0						
								1	2	0	0	0		
		1	2	0	5	0								

Exercices d'application :

Convertis les mesures suivantes dans les unités demandées : (Utilise un tableau de conversion…)

1 m² = 10.000 cm² 1 km² = 1.000.000 m² 1 cm² = 1.00 mm²

250 m² = 2,50 dam² 250 m² = 2.5000 dm² 250 m² = 0,0250 hm²

0,33 m² = 33 dm² 0,33 dm² = 33.00 mm² 0,33 km² = 330.000 m²

154,2 cm² = 0,0154 m² 360 dm² = 3,60 m² 5,5 dam² = 550 m²

5,2 m² = 52.000 cm² 95 dm² = 9500 cm² 1 840 mm² = 18,40 cm²

1,4 dm² = 0,014 m² 753 cm² = 7,53 dm² 7 500 m² = 0,7500 hm²

Complète :

400 m² = 4,00 dam² 400 m² = 4 dam² 400 m² = 40000 dm²

8,5 m² = 850 dm² 8,5 dm² = 0,085 m² 8,5 km² = 85 000 dam²

1 km² = 1.000.000 m² 0,1 km² = 100 000 m² 0,01 km² = 1 hm²

250 km² = 250 000 000 m² 2,8 dam² = 280 m² 0,58 dm² = 5 800 mm²

8 950 dam² = 89,50 hm² 12 000 cm² = 1,2 m² 12 050 dam² = 1,2050 km²

* Par manque de place, je ne les ai pas tous placés dans le tableau.

Km²		Hm²		Dam²		M²		Dm²		Cm²		Mm²	
							1	0	0	0	0		
					2,	5	0						
							0	3	3				
							0	0	1	5	4	2	
							5	2	0	0	0		
							0	0	1	4			
									0	3	3	0	0

			0,	0	2	5	0						
	0,	3	3	0	0	0	0						
					5	5	0						
			0,	7	5	0	0						
							8	5	0				
							0	0	8	5			
	8	5	0	0	0								

	0	1	0	0	0	0	0						
	0	0	1										

Calcul mental (course aux nombres) :

	Énoncé	Réponse	Jury
1)	7 × 3	21	
2)	Complète.	49 = 7 × 7	
3)	La moitié de 18	9	
4)	17 − 9	8	
5)	22 + 19	41	
6)	Complète.	45 + 15 = 60	
7)	Ajoute un quart d'heure à 1 h 45 min.	2 h	
8)	Complète.	40 50 ↑ 55	
9)	4 gommes pèsent 50 g.	8 gommes pèsent 100 g.	
10)	Combien y-a-t-il de dizaines **en tout** dans 234 ?	23 dizaines	

	Énoncé	Réponse	Jury
11)	Combien de dizaines dans un millier ?	100 dizaines	
12)	Complète.	10 × 100 = 1 000	
13)	L'unité est le petit cube (▫). 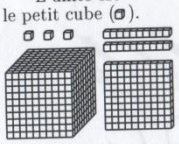	Il y a … unités en tout. 1123	
14)	Au judo, il y a 10 garçons et 3 fois plus de filles.	Il y a 40 enfants en tout.	
15)	Complète.	25 cL + 75 cL = 1 L	
16)	VRAI ou FAUX Coche la bonne réponse.	Ces figures ont le même périmètre. ❑ Vrai ☒ Faux	
17)	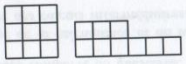	Ces figures ont la même aire. ☒ Vrai ❑ Faux	
18)	Complète.	0 1 ↑ $\frac{3}{5}$ = 0,6	
19)	12 × 5	60	
20)	Entoure la réponse possible.	La hauteur d'une table est: 80 mm (80 cm) 80 m	

	Énoncé	Réponse	Jury
21)	Une voiture roule à une vitesse constante de 80 km/h.	Elle parcourt 80 km en 1 heure.	
22)	Une voiture roule à une vitesse constante de 80 km/h.	Elle parcourt 160 km en 2 heures.	
23)	Compléter la suite logique.	25 / 50 / 75 / 100	
24)	105 × 95 **Entoure le nombre le plus proche du résultat.**	1 000 (10 000) 100 000	
25)	341 × 7 **Entoure la bonne réponse sans effectuer précisément le calcul.**	1 117 (2 387) 7 341	
26)	2 kg de pommes coûtent 3 €. 5 kg de ces mêmes pommes coûtent 7,50 €.	7 kg de pommes coûtent 10,50 €.	
27)	60 ÷ 5	12	
28)	Un quart de 20 €	5 €	
29)	45 élèves ont été répartis en groupes de 5 élèves.	Il y a 9 groupes.	
30)	Dans un village, on a le choix entre 3 couleurs pour peindre les murs et 2 couleurs pour la porte d'entrée. **En choisissant 1 couleur pour les murs et 1 couleur pour la porte, combien de maisons différentes peut-on obtenir ?**	11 3×2 = 6	

Nom: ..... **Prénom:** .....

Classe: .....

Score: /30

✓ *Durée: 9 minutes*

✓ *L'épreuve comporte 30 questions.*

✓ *L'usage de la calculatrice et du brouillon sont interdits. Il n'est pas permis d'écrire des calculs intermédiaires.*

/30

Sujet CM2

80% de réussite → A tb ≥ 24/30
PA b / ab ≤ 23/30
40% de réussite → NA insuffisant ≤ 12/30



30 − 24 = tb
23 − 18 = b
17 − 15 = ab
15 − 12 = moyen
12 − 0 = insuffisant

académie Caen Rouen RÉGION ACADÉMIQUE NORMANDIE
académie Strasbourg RÉGION ACADÉMIQUE GRAND EST
académie Versailles RÉGION ACADÉMIQUE ILE-DE-FRANCE
académie Nancy-Metz RÉGION ACADÉMIQUE GRAND EST