# Port autonome de Strasbourg



*Vue aérienne du port autonome de Strasbourg et accès sur le Rhin.*



*Grue pour le chargement.*





*Arrivée possible de trains de transport de céréales au port de commerce de Strasbourg.*



*Arrivée de troncs par camions.*

*Chargement de troncs.*



*Batorama, bateau de tourisme du port autonome de Strasbourg.*

http://www.strasbourg.port.fr/

Vocabulaire à connaître :

**Un port de plaisance** accueille des bateaux de tourisme.

**Un port de pêche** accueille des bateaux pour la pêche de poissons ou crustacées.

**Un port de commerce** accueille des bateaux qui transportent des marchandises (le fret).

**Un port fluvial** est au bord d'un fleuve.

**Un port maritime** est en bord de mer ou d'océan.

**Une route maritime** est un parcours sur les mers ou les océans utilisé par les bateaux.

**Un canal** est un chemin d'eau creusé par l'homme qui peut relier deux fleuves. Par exemple, le canal de la Marne au Rhin.

**Une écluse** permet de faire passer un bateau d'un niveau de la rivière à un autre tout en restant dans l'eau.

**Une embouchure** est l'endroit où un cours d'eau se jette dans une mer ou un océan.

L'endroit le plus haut d'une rivière s'appelle l'**amont** et le plus bas l'**aval** (vers la mer ou l'océan).

Il faut être dans le **sens du courant** pour définir la **rive droite** (côté droit) ou la **rive gauche** (côté gauche) d'une rivière ou d'un fleuve.

Les déplacements par bateaux.

En France, il y a trois types de ports : _____, _____ et _____. Les plus gros déplacements de bateaux sont liés au commerce c'est à dire au transport des _____. En France, le commerce peut se faire par voie _____ (sur les fleuves) ou par voie _____ (sur la mer ou l'océan).

Le transport fluvial utilise les _____ existants et tout un réseau de _____ et d'_____. Les deux fleuves les plus importants d'Europe pour le transport de marchandises sont le R_____ et le D_____

L'essentiel des échanges de marchandises entre l'Europe et le reste du Monde se fait par voie _____. Elle permet le transport de _____ sur de très _____ distances tout en _____ peu. Le plus grand port d'Europe est le port de R_____ aux P_____.

C'est au _____ de l'Europe que le réseau de voies navigables est le plus important.

Les plus grands ports au Monde se situent sur le continent de l' _____ principalement en C_____. Le plus connu est celui de Shanghai.

Les ports en France et en Europe

Voici les principaux ports français :

Marque d'un point rose les ports de commerce : Dunkerque, Calais, Le Havre, Nantes, Bordeaux, Marseille.

Marque d'un point vert les ports de pêche : Boulogne, Concarneau, Lorient, La Turballe, Sète, port-la-Nouvelle.

Les autres sont des ports de plaisance pour le tourisme.

Repasse en bleu sur les fleuves que tu vois.

Ecris le nom des fleuves que tu vois sur la carte.

- port de plaisance
- port de commerce
- port de pêche

Où sont toujours situés les ports de commerce ?

_____

_____

Pourquoi ?_____

_____

*Carte de localisation des principaux ports de commerce d'Europe alignés au sud de la mer du Nord.*

Quel fleuve relie la France à Rotterdam ?

_____

Quels types de bateaux permettent ce trajet ?

_____

A partir de Bordeaux comment naviguerais-tu pour emmener tes marchandises à Rotterdam ?

_____

_____

Pourquoi est-ce plus compliqué à partir de Marseille ?

_____

_____

Marque un point violet à l'endroit où se situe Strasbourg.

Il existe un port de commerce à Strasbourg. Au bord de quel fleuve se situe-t-il ? _____

C'est un port fluvial = au bord d'un fleuve.

C'est le deuxième port fluvial de France.

Il s'appelle Port Autonome de Strasbourg.